2º ANO	Superintendência de Educação Infantil e Ensino Fundamental · Secretaria de Estado da Educação · Somos todos GOIÁS
MATEMÁTICA	

ATIVIDADE 9

TEMA: TABELAS E GRÁFICOS.

NOME:

UNIDADE ESCOLAR:

TABELAS E GRÁFICOS

A PROFESSORA ANA FEZ UMA PESQUISA SOBRE A PREFERÊNCIA, DE CADA ESTUDANTE DO 2º ANO, PELAS FRUTAS BANANA, LARANJA, MAÇÃ E UVA.

VEJA O RESULTADO A SEGUIR.
6 ESTUDANTES PREFEREM BANANA;
4 ESTUDANTES PREFEREM LARANJA;
1 ESTUDANTE PREFERE MAÇÃ;
4 ESTUDANTES PREFEREM UVA.

PARA FACILITAR A LEITURA, A PROFESSORA ANA REPRESENTOU O RESULTADO DA PESQUISA EM UMA TABELA E DEPOIS EM UM GRÁFICO. VEJA COMO FICOU A TABELA.

PREFERÊNCIA DE FRUTAS PELOS ESTUDANTES DO 2º ANO

TÍTULO DA TABELA

FRUTAS	PREFERÊNCIA
BANANA	6
LARANJA	4
MAÇÃ	1
UVA	4

OS DADOS ESTÃO REPRESENTADOS NA TABELA E ELA FACILITA LER AS INFORMAÇÕES.

FONTE: ESTUDANTES DO 2º ANO

FONTE

AGORA, VEJA A REPRESENTAÇÃO DO RESULTADO DA PESQUISA, NO GRÁFICO:



Disponível em: https://corta.ai/8RBiW.Adaptado. Acesso dia 22 de abr. de 2021.

O GRÁFICO É UMA FORMA DE RESUMIR UM CONJUNTO DE DADOS.

ALGUNS ELEMENTOS DEVEM FAZER PARTE DO GRÁFICO.

OS ELEMENTOS SÃO:

- TÍTULO
- IDENTIFICAÇÃO DAS BARRAS (NA LINHA HORIZONTAL)
- DEFINIÇÃO DOS VALORES (ACIMA DAS BARRAS OU NA LINHA VERTICAL LATERAL).
- LEGENDA

APÓS À ORGANIZAÇÃO DOS DADOS NA TABELA E NO GRÁFICO, FICA MAIS FÁCIL SABER QUAL A PREFERÊNCIA DAS FRUTAS PELOS ESTUDANTES DO 2º ANO.

ATIVIDADES

1. OBSERVE A IMAGEM E FAÇA A LEITURA.

Disponível em https://br.pinterest.com/pin/622552348490549579/. Acesso dia 23 de abr. de 2021.

DIOGO GANHOU UMA BICICLETA NO DIA DO SEU ANIVERSÁRIO. ELE NUNCA TINHA ANDADO DE BICICLETA E RESOLVEU APRENDER ANDAR NO QUINTAL DA CASA DA VOVÓ.

A) O QUE SERÁ QUE ACONTECEU NAS PRIMEIRAS TENTATIVAS DE DIOGO AO ANDAR DE BICICLETA? SERÁ QUE ELE CAIU? _____

B) ESCREVA NAS LINHAS ABAIXO O QUE VOCÊ ACREDITA QUE ACONTECEU COM DIOGO.

_____

_____

_____

2. OBSERVE, A SEGUIR, A PREFERÊNCIA POR ESPORTE DOS ESTUDANTES DO 2º ANO.

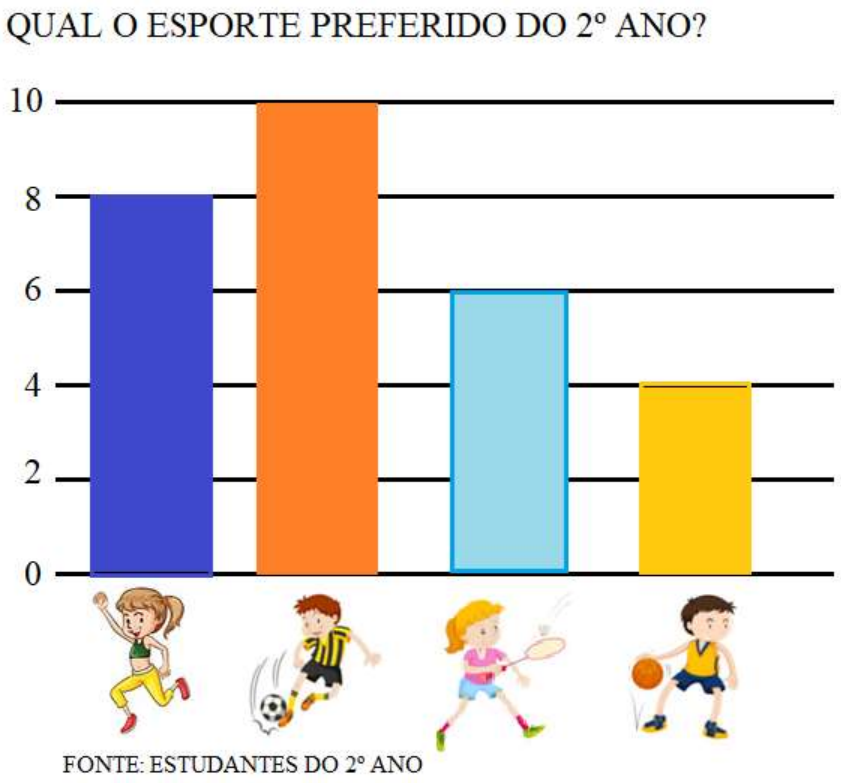

A) QUAIS ESPORTES ESTÃO REPRESENTADOS NESSE GRÁFICO?

_____

B) QUANTOS ESTUDANTES PREFEREM CORRER? _____

C) QUANTOS ESTUDANTES PREFEREM FUTEBOL? _____

D) QUANTOS ESTUDANTES PREFEREM BASQUETE? _____

E) QUANTOS ESTUDANTES PREFEREM PETECA? _____

3. AS CRIANÇAS BRINCARAM DE JOGO DA MEMÓRIA. VEJA, A SEGUIR, A QUANTIDADE DE CARTAS DE CADA UM, NO FINAL DO JOGO.

Disponível em https://corta.ai/UfdNBAcesso dia 22 de abril de 2021.

A) PREENCHA A TABELA COM A QUANTIDADE DE CARTAS DE CADA ESTUDANTE.

B) QUEM FICOU COM A MAIOR QUANTIDADE DE CARTAS NO FINAL DO JOGO?

_____

4. RODRIGO É DONO DE UMA LOJA DE BRINQUEDOS. NO FINAL DE MARÇO, ELE RESOLVEU FAZER UM GRÁFICO APRESENTANDO A QUANTIDADE DE BRINQUEDOS QUE VENDEU DURANTE O MÊS. VEJA O GRÁFICO A SEGUIR.

Disponível em: https://corta.ai/qMu5O.Adaptado. Acesso dia 22 de abr. de 2021.

DE ACORDO COM ESSE GRÁFICO, CIRCULE OS DOIS BRINQUEDOS MAIS VENDIDOS.

Disponível em: https://corta.ai/PdnQm.Acesoo dia 22 de abr. de 2021.

5. OBSERVE AS INFORMAÇÕES NA ATIVIDADE ANTERIOR E COMPLETE A TABELA A SEGUIR. ESCREVA O NOME DOS BRINQUEDOS E SUA QUANTIDADE.

_____

NOME DO BRINQUEDO	QUANTIDADE

FONTE: DADOS FICTÍCIOS

A) ESCREVA UM TÍTULO PARA ESSA TABELA.

B) QUAL DESSES BRINQUEDOS VOCÊ COMPRARIA NA LOJA DO RODRIGO?

_____

6. OBSERVE O GRÁFICO DAS FRUTAS PREFERIDAS PELOS ALUNOS DO 2º ANO DA ESCOLA ESTADUAL SONHO FELIZ.

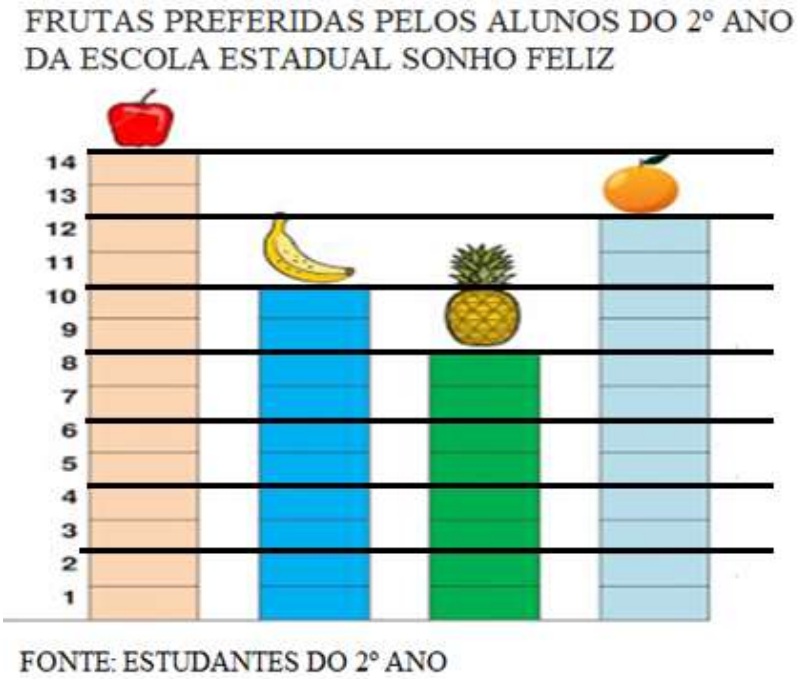

Disponível em: https://corta.ai/arMsj.Acesso dia 23 de abr. de 2021.

AGORA RESPONDA.

A) QUAL É A FRUTA DE MAIOR PREFERÊNCIA PELA TURMA? _____
B) QUANTOS ALUNOS GOSTAM DE LARANJA? _____
C) QUAL A FRUTA QUE OS ALUNOS MENOS GOSTAM? _____

7. OBSERVE A TABELA A SEGUIR.

LEITURA PREFERIDA DOS ESTUDANTES DO 2º ANO

LEITURA PREFERIDA	NÚMERO DE ENTREVISTADOS
CONTOS	12
POESIA	8
CORDEL	7
LENDAS	3

FONTE: ESTUDANTES DO 2º ANO

DE ACORDO COM OS DADOS DA TABELA, RESPONDA.
A) QUAL É O TÍTULO DA TABELA?

_____

B) QUAL O NÚMERO DE ENTREVISTADOS?

_____

C) QUANTOS ESTUDANTES PREFEREM POESIA? _____

D) QUAL A LEITURA PREFERIDA DESSES ESTUDANTES? _____

8. O QUADRO A SEGUIR MOSTRA O RESULTADO DE UMA PESQUISA SOBRE A ACEITAÇÃO DA MERENDA NA ESCOLA DO BRUNO.

ACEITAÇÃO DA MERENDA	
GOSTO	10
ÀS VEZES	5
NÃO GOSTO	8

FONTE: DADOS FICTÍCIOS

Disponível https://corta.ai/g84h0. Acesso dia 22 de abr. d 2021.

A) ASSINALE A ALTERNATIVA QUE CORRESPONDE AO TOTAL DE ESTUDANTES QUE NÃO GOSTARAM DA MERENDA.

(A) 4
(B) 5
(C) 8
(D) 10

B) PINTE OS QUADRADINHOS DO GRÁFICO DE ACORDO COM A PREFERÊNCIA DA MERENDA NA ESCOLA DO BRUNO.

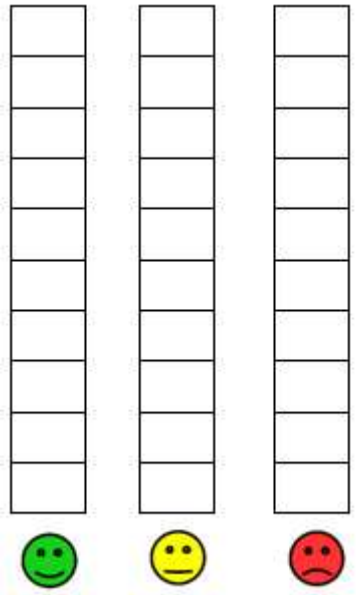

C) AGORA, CRIE UM TÍTULO PARA ESSE GRÁFICO. _____